Задания по математике в картинках для детей 5-7 лет

Развивающие задания по математике для дошкольников

Задания для детей старшей - подготовительной группы. Математическое развитие

Задание 1

СЧИТАЛОЧКА НА КУХНЕ

Сколько предметов в каждом прямоугольнике?Ответ напиши словами.

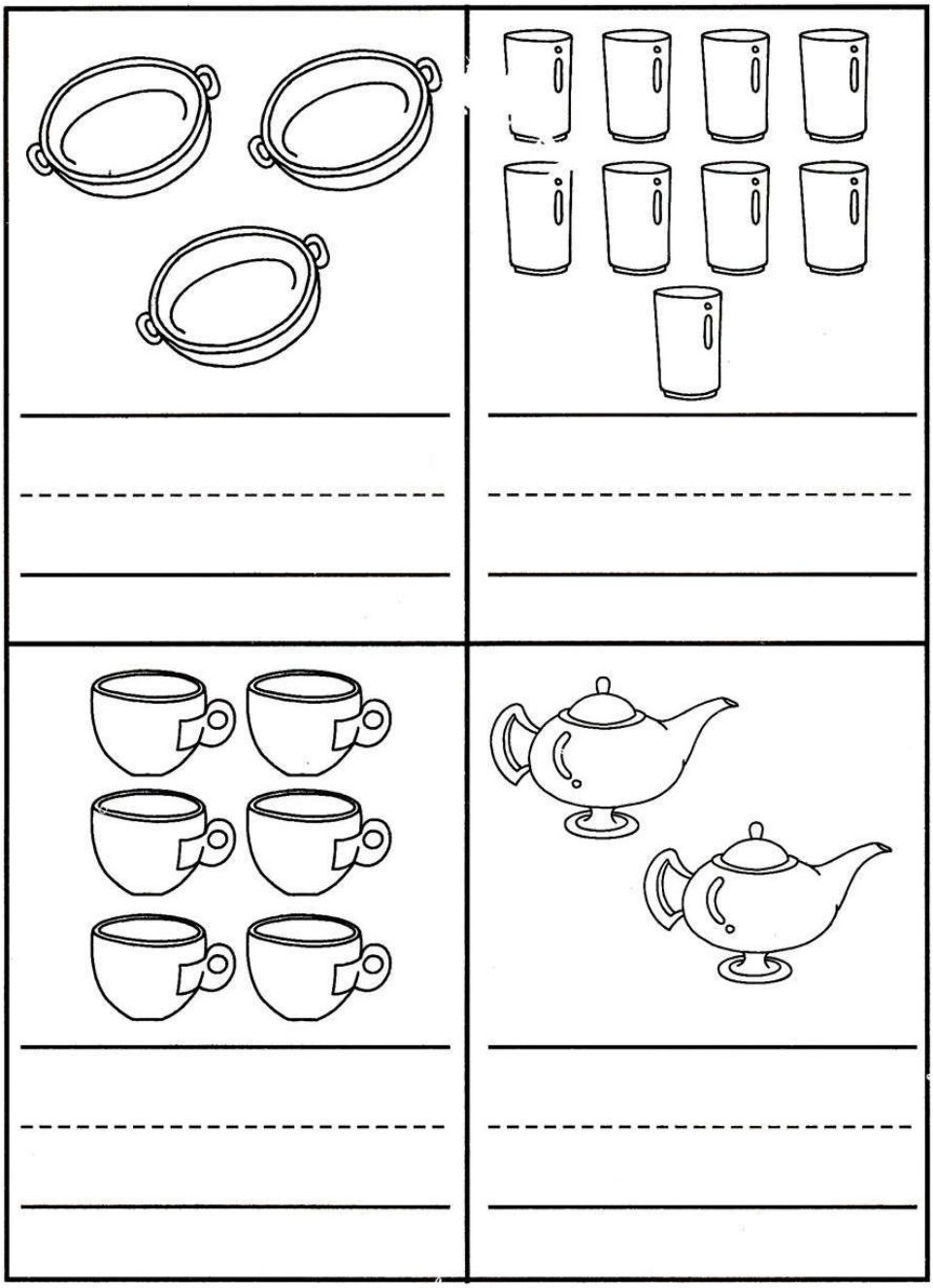

ped-kopilka.ru

Задание 2
СЧИТАЛОЧКА
Сколько картинок в каждой рамке?
Соедини линиями рамки и соответствующие флажки



ped-kopilka.ru

Задание 3
ВЕСЁЛЫЙ СЧЁТ
Реши примеры



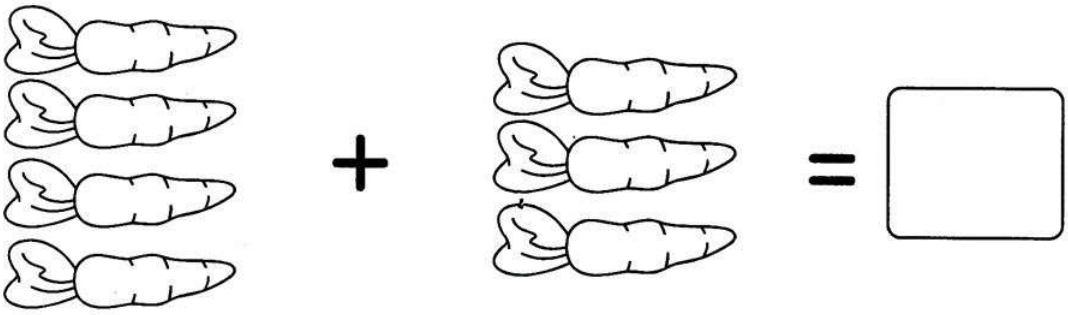





ped-kopilka.ru

Задание 4
ФРУКТОВЫЙ СЧЁТ
Раскрась пары фруктов, сумма чисел на которых равна 9



ped-kopilka.ru

Задание 5
СЧИТАЛОЧКА
Реши примеры.



ped-kopilka.ru

Задание 6

СЧИТАЛОЧКА
Реши примеры

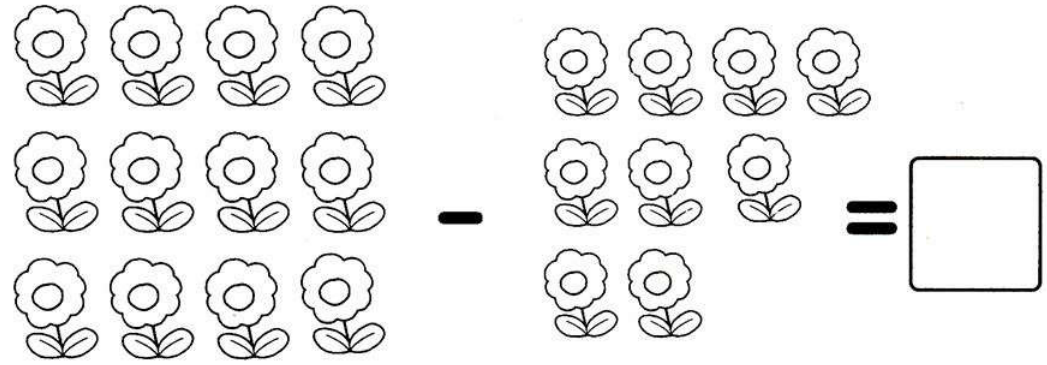





ped-kopilka.ru

Задание 7
БОЛЬШОЙ И МАЛЕНЬКИЙ
В каждом ряду пронумеруй картинки от самой маленькой до самой большой



ped-kopilka.ru

Задание 8
ВКУСНАЯ СЧИТАЛОЧКА
Реши примеры, используя подсказки в рамках.





ped-kopilka.ru

Задание 9
СЧИТАЛОЧКА
Соедини кружочек с цифрой и картинку, на которой написана такая же цифра.



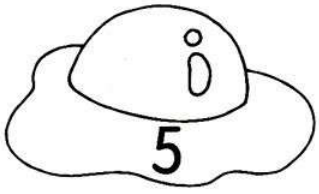







1
2
3
4
5
6
7
8
9
10











ped-kopilka.ru

Задание 10
СЧИТАЛОЧКА
Реши примеры и соедини линиями стрекоз и лягушек.



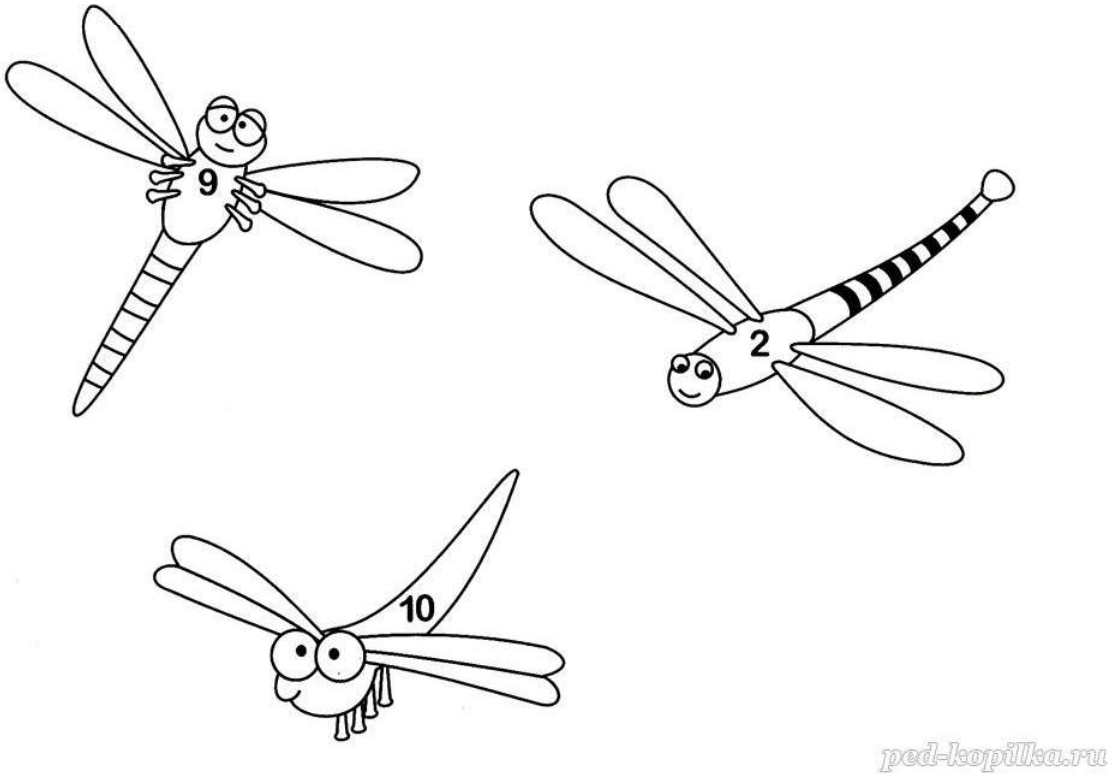

ped-kopilka.ru

Задание 11
СЧИТАЛОЧКА
Реши примеры.
Соедини ответы с соответствующим количеством картинок

$10+5=$ ☐

$5+2=$ ☐

$10-4=$ ☐

$6-3=$ ☐









ped-kopilka.ru

Задание 12
КРОССОВКИ
Реши примеры и найди Мишины кроссовки.
Подсказка: ему нужна пара кроссовок, на каждой из которых в сумме получается 6



ped-kopilka.ru

Задание 13
ВЕСЁЛЫЙ СЧЁТ
Реши примеры и соедини их с ответами.



ped-kopilka.ru

Задание 14

СЧИТАЛОЧКА

На каждом цветке раскрась красным цветом лепесток с самым большим числом и жёлтым – с самым маленьким.



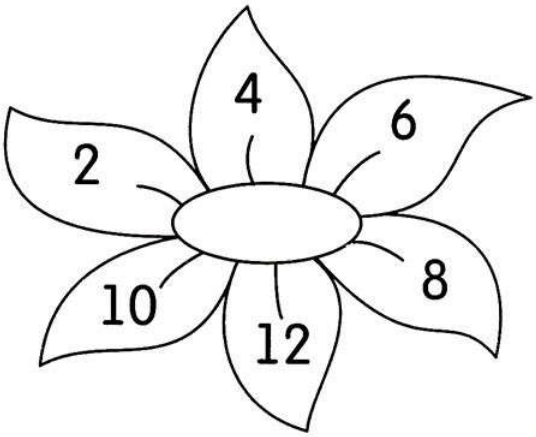

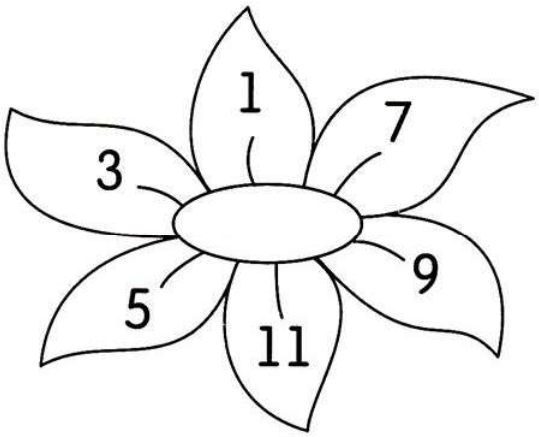





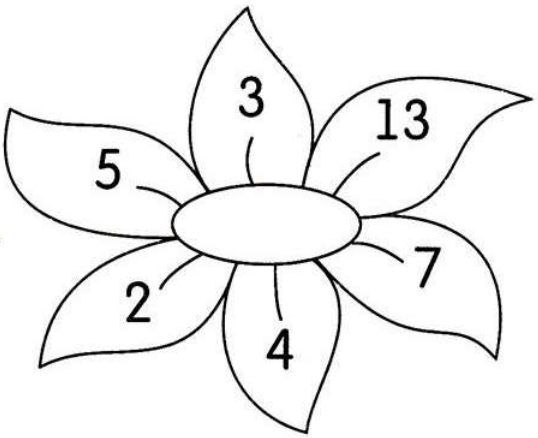

ped-kopilka.ru

Задание 15
ОБЛАКА
Сосчитай картинки в облаках.
Ответы впиши в окошки.



ped-kopilka.ru

Задание 16
НА ДНЕ ОКЕАНА
Сколько здесь морских звёзд и сколько осьминогов?

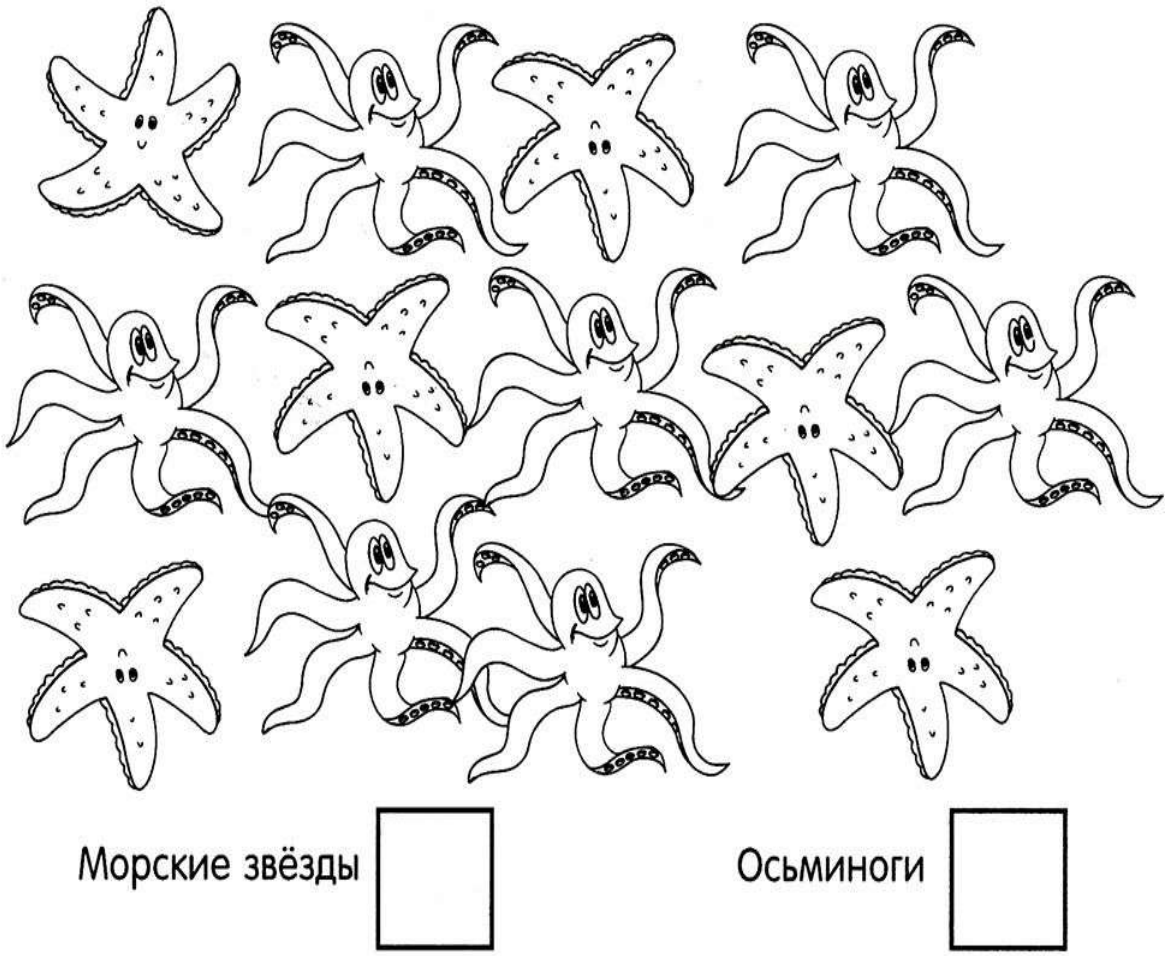

ped-kopilka.ru

Задание 17

СЧИТАЛОЧКА

Сосчитай картинки в каждом прямоугольнике и соедини их линиями с соответствующими цифрами.

1



2



3



4



5



ped-kopilka.ru

Задание 18
БОЛЬШОЙ И МАЛЕНЬКИЙ
Раскрась больших животных и обведи маленьких

















ped-kopilka.ru

Задание 19
ВОЗДУШНЫЕ ШАРИКИ
Сколько воздушных шариков в каждой связке?

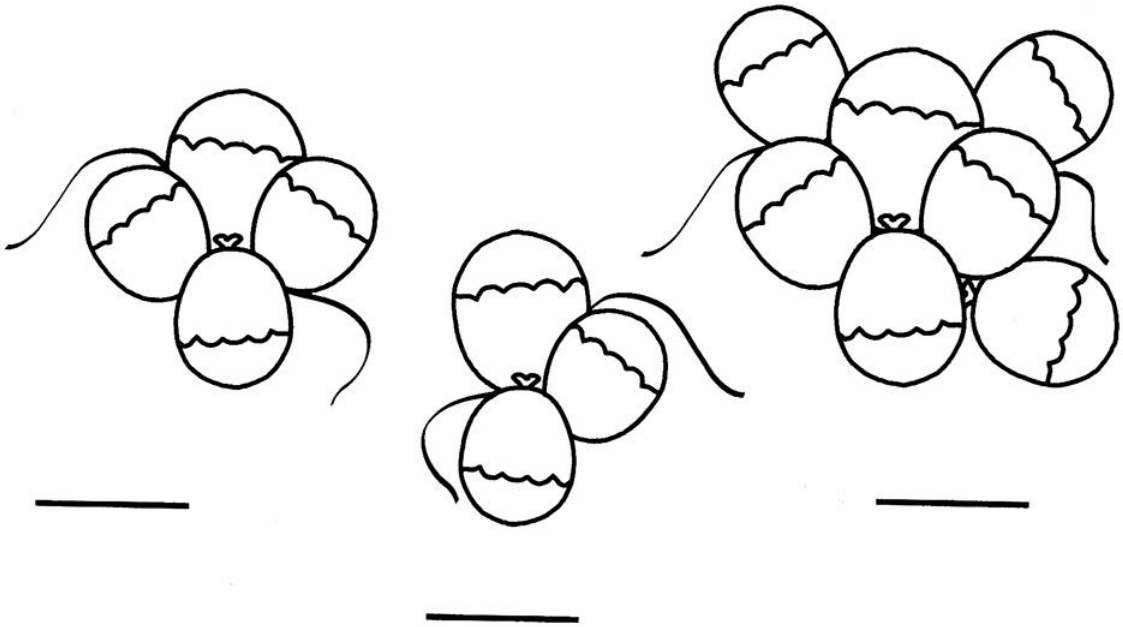

ped-kopilka.ru

Задание 20
ФРУКТОВАЯ СЧИТАЛОЧКА
Сколько здесь фруктов каждого вида?



ped-kopilka.ru

Задание 21
СЧИТАЛОЧКА
Реши примеры на яблоках и на морских звёздах.
Соедини линиями яблоки и звёзды, на которых получились одинаковые ответы.



ped-kopilka.ru

Задание 22
СЧИТАЛОЧКА
Угадай последовательности и впиши пропущенные цифры



ped-kopilka.ru

Задание 23
МОРКОВКА НА ТАРЕЛКАХ
Нарисуй на каждой тарелке столько морковок, сколько не хватает до десяти.

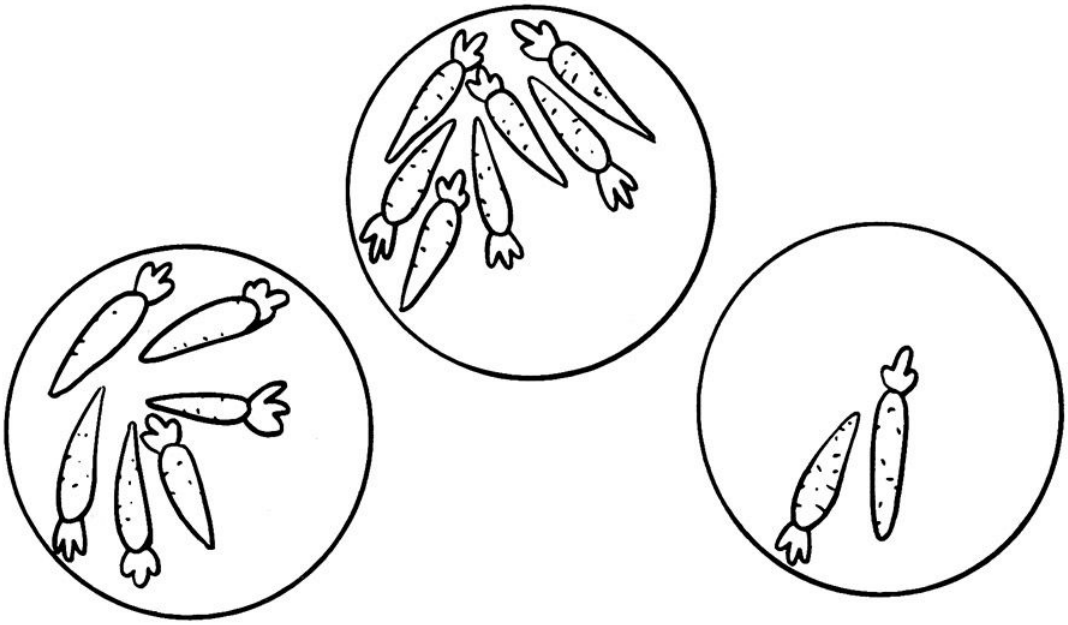

ped-kopilka.ru

Задание 24
СЧИТАЛОЧКА
Реши примеры и впиши ответы в окошки



8 − 3 =

10 − 8 =



3 + 7 =

9 − 3 =

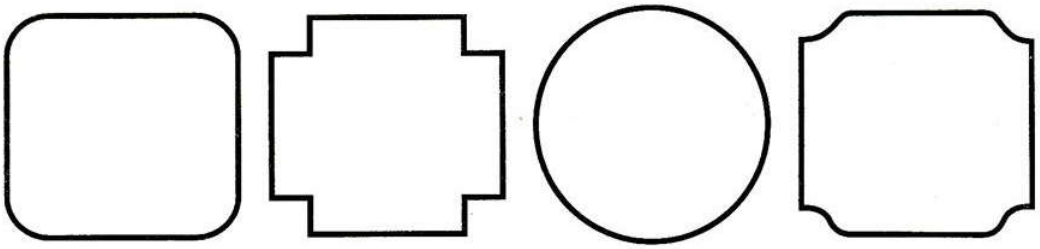

ped-kopilka.ru

Задание 25
ВЕСЁЛЫЙ СЧЁТ
Раскрась три яблока так, чтобы сумма, написанная на них цифр равнялась 8.



ped-kopilka.ru

Задание 26

СЧИТАЛОЧКА

Соедини линиями прямоугольники с одинаковым количеством предметов на картинках.












ped-kopilka.ru

Задание 27
СЧИТАЛОЧКА
Сколько картинок в каждом прямоугольнике?
Соедини их с соответствующими цифрами.

0



1



2



3



4



5



ped-kopilka.ru

Задание 28
МЫЛЬНЫЕ ПУЗЫРИ
Сколько здесь мыльных пузырей?



ped-kopilka.ru

Задание 29
СЧИТАЕМ ПАЛОЧКИ
Сколько палочек в каждом стаканчике с мороженым?
Ответы впиши в окошки.



ped-kopilka.ru

Задание 30
СЧИТАЛОЧКА
Сосчитай жёлуди. Ответы впиши в окошки.

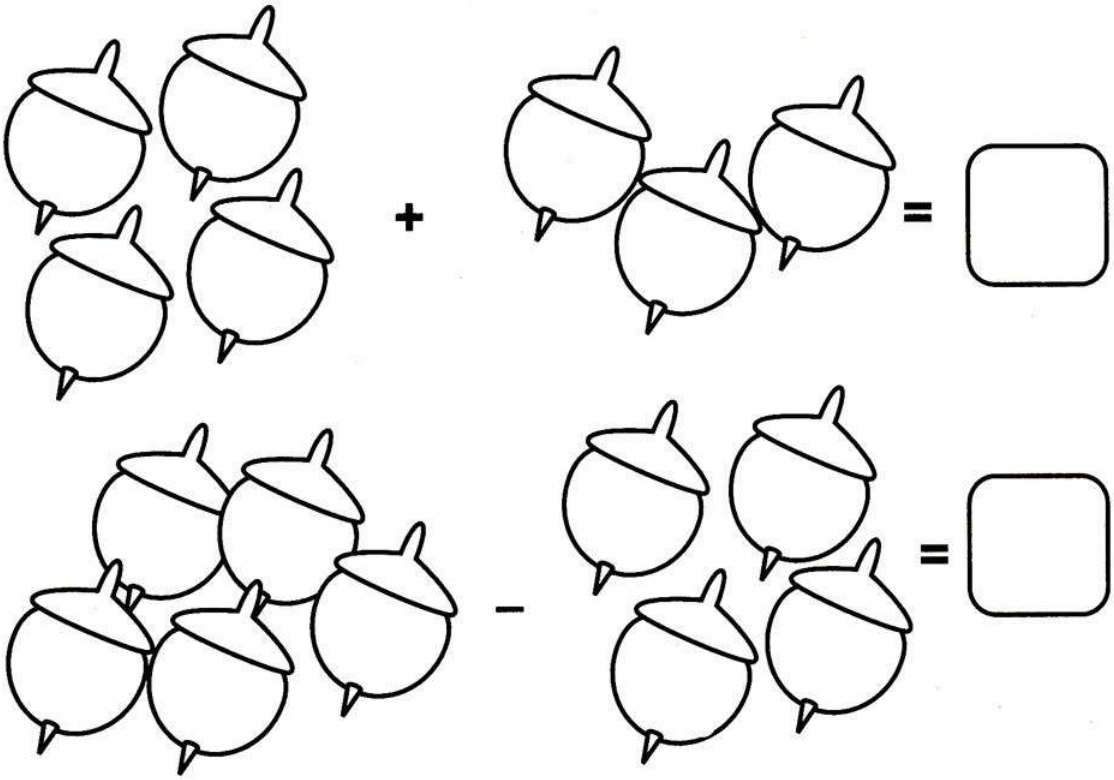

ped-kopilka.ru

Задание 31
ВОЗДУШНЫЕ ЗМЕИ
Реши примеры на катушках и соедини их со змеями.

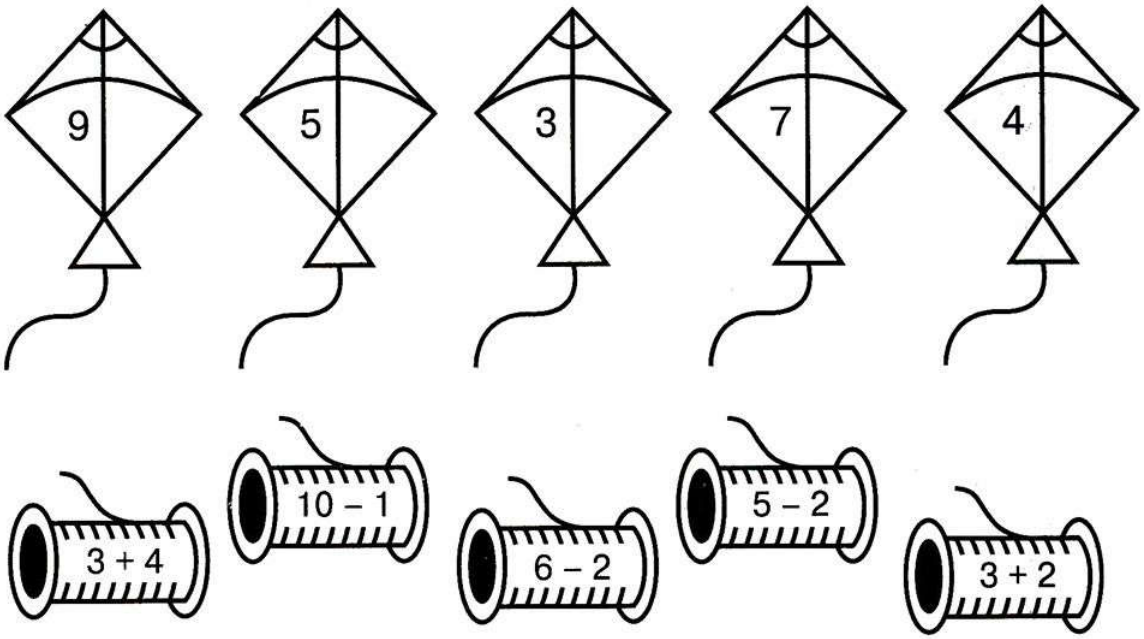

ped-kopilka.ru

Задание 32
РАКЕТЫ
Впиши пропущенные числа.



ped-kopilka.ru

Задание 33
ПЯТНИСТАЯ ЛЯГУШКА
Сколько пятнышек разного размера на лягушке?



ped-kopilka.ru

Задание 34

ОЛЕНЁНОК ПОТЕРЯЛСЯ

Помоги оленёнку попасть к маме.

Он может идти только мимо тех листиков, на которых сумма равняется 10.



ped-kopilka.ru